University of Alberta Library
0 1620 1532 8550

EXAMEN EN VUE DU DIPLÔME
12e ANNÉE

Études sociales 30

Juin 1991

Alberta
EDUCATION

300.076
E92
1991:
juin

CDPCOLSP

EX LIBRIS
UNIVERSITATIS
ALBERTENSIS

Droits de reproduction 1991, la Couronne du chef de l'Alberta, représentée par le ministre de l'Éducation, Student Evaluation Branch, 11160 Jasper Avenue, Edmonton, Alberta, T5K 0L2. Tous droits réservés. On peut acheter des exemplaires supplémentaires en s'adressant à: Learning Resources Distributing Centre.

Les questions de cet examen qui contiennent des extraits NE PEUVENT PAS être reproduites sans l'autorisation de l'éditeur original (voir page de CRÉDITS, le cas échéant). Autorisation est par la présente donnée aux enseignants de l'Alberta de reproduire, à des fins éducatives et dans un but non lucratif, les parties de cet examen qui NE CONTIENNENT PAS d'extrait, ET CE SEULEMENT UNE FOIS QUE CET EXAMEN AURA ÉTÉ ADMINISTRÉ.

EXAMEN EN VUE DU DIPLÔME
ÉTUDES SOCIALES 30

INSTRUCTIONS GÉNÉRALES

VOUS AVEZ DEUX HEURES ET DEMIE POUR FAIRE CET EXAMEN. PRÉVOYEZ SOIGNEUSEMENT VOTRE TEMPS.

PARTIE A Elle consiste en questions à choix multiples qui comptent pour 70% de la note totale.

PARTIE B Elle consiste en une dissertation qui compte pour 30% de la note totale.

IL EST RECOMMANDÉ DE LIRE LES QUESTIONS DE LA PARTIE B EN ENTIER AVANT DE COMMENCER L'EXAMEN. LES IDÉES APPARAISSANT DANS LES QUESTIONS À CHOIX MULTIPLES PEUVENT VOUS AIDER À COMPOSER VOTRE DISSERTATION.

INSTRUCTIONS POUR LA PARTIE A: QUESTIONS À CHOIX MULTIPLES

- Utilisez uniquement un crayon HB.
- Écrivez votre nom et les autres renseignements requis au dos du livret d'examen **et** sur la feuille de réponses séparée.
- Indiquez toutes vos réponses sur la feuille de réponses.
- Si vous voulez changer une de vos réponses, effacez complètement la première marque.

Exemple	**Feuille de réponses**			
La capitale du Canada est	A	B	C	D
A. Vancouver **B.** Winnipeg **C.** Ottawa **D.** Montréal	①	②	●	④

L'examinateur ramassera les feuilles de réponses et les livrets d'examen.

NE PLIEZ NI LA FEUILLE DE RÉPONSES NI LE LIVRET D'EXAMEN.

JUIN 1991

UNIVERSITY LIBRARY
UNIVERSITY OF ALBERTA

1. Selon la doctrine marxiste, les institutions de la société au cours de l'histoire sont fondamentalement déterminées par des forces

A. politiques
B. militaires
C. économiques
D. culturelles

2. En règle générale, beaucoup de politiciens prétendraient que la démocratie représentative est préférable à la démocratie directe parce que la démocratie représentative

A. permet aux vues de chaque citoyen d'être exprimées librement
B. fournit aux citoyens de nombreuses occasions de participation
C. empêche le gouvernement par la majorité de devenir dictatorial
D. accroît la vitesse de prise de décision en politique

3.

PREMIER TERME		SECOND TERME
ENDOCTRINEMENT	–	PROPAGANDE

Quel énoncé décrit le rapport entre ces deux termes?

A. Le premier terme est une contradiction du second.
B. Le second terme est un exemple du premier.
C. Le second terme signifie le contraire du premier.
D. Les deux termes sont sans rapport entre eux.

4. *Tous les êtres humains naissent libres et égaux en dignité et en droits. Ils sont tous doués de raison et de conscience, et devraient se comporter les uns envers les autres dans un esprit de fraternité.*

Théoriquement, qui contesterait **le plus** les présupposés sur lesquels est basée cette déclaration?

A. Un fasciste qui suit les principes nazis
B. Un marxiste qui suit les principes communistes
C. Un capitaliste partisan des principes de laissez-faire
D. Un anarchiste partisan des principes socialistes utopiques

5. Une tendance récente de l'économie soviétique qui représente un grand écart par rapport aux principes d'économie centralisée est

A. l'emploi de la technologie pour augmenter la production nationale
B. une plus grande insistance sur la production des biens d'équipement
C. l'emploi de primes monétaires et autres pour stimuler la production
D. une plus grande insistance sur la mécanisation de la production agricole

Utilisez les sources suivantes pour répondre aux questions 6 à 9.

SOURCE I

C'est la concurrence, pas l'aide du gouvernement, qui a forcé les producteurs à rester vigilants pour la plus grande joie des acheteurs. La plupart des producteurs réalisent la futilité de conspirer entre eux. Ils n'essaient pas d'écraser ou de bloquer leurs rivaux. À la place, ils essaient de se surpasser mutuellement en progrès techniques et en publicité, en techniques marchandes, en réparations et en remplacement. Les chefs d'entreprise réinvestissent un pourcentage toujours croissant de leurs profits pour améliorer leurs produits, car ils savent que l'acheteur est l'ultime juge.

– dans *Vital Speeches of the Day*

SOURCE II

Les subventions et allocations aux entreprises sont soutenues pour injecter de nouveaux capitaux d'investissement dans une compagnie pour lui permettre de survivre et d'être concurrentielle. De fait, les compagnies qui emploient directement ces secours mettent la main sur l'argent du public par l'intermédiaire du gouvernement – l'argent qui est recueilli sous forme d'impôts. À son tour, la compagnie peut continuer à employer des gens, à fabriquer des marchandises et à gagner assez d'argent pour rembourser tout subside sous forme d'impôts.

– dans *Canada and the World*

SOURCE III

"Si seulement nous avions une subvention du gouvernement, nous serions réellement compétitifs!"

– dans *The Edmonton Journal*

6. La question centrale soulevée par les sources est la mesure dans laquelle les gouvernements devraient

A . faire passer une législation pour empêcher les monopoles
B . donner des primes aux entreprises privées
C . encourager la coopération entre les entreprises privées
D . permettre aux entreprises privées de faire concurrence aux sociétés publiques

7. L'auteur de la source I reconnaît que la réussite d'un régime capitaliste dépend en définitive de la

A . concurrence entre les entreprises
B . coordination de la gestion
C . publicité faite par les sociétés
D . souveraineté du consommateur

8. Un social-démocrate soutiendrait la conclusion de la source II parce que

A . les subventions publiques peuvent sauvegarder l'emploi
B . les réductions fiscales peuvent créer des salaires plus équitables
C . les sociétés qui paient des impôts peuvent recevoir plus d'avantages que les consommateurs
D . les compagnies privées peuvent être plus concurrentielles grâce aux subventions du gouvernement

9. L'humour du dessin de la source III vient

A . du manque manifeste de concurrence entre les compagnies privées
B . de la contradiction de la fourniture de subventions publiques aux frais des particuliers
C . de la contradiction que les compagnies privées dépendent du financement public
D . du déclin visible de la productivité dans le secteur privé

---

10. Un problème fondamental lié aux systèmes électoraux basés sur la représentation proportionnelle est qu'ils

A . ont tendance à trop représenter les grands partis politique et à ne pas assez représenter les partis politiques marginaux

B . peuvent conduire à des gouvernements minoritaires, à une impasse politique et à des élections fréquentes

C . ne sont pas compatibles avec les politques de parti en place dans beaucoup de démocraties occidentales

D . enlèvent des pratiques électorales l'idée de représentation en fonction de la population

Utilisez le diagramme suivant pour répondre aux questions 11 à 13.

ÉVENTAIL POLITIQUE

GAUCHE		CENTRE		DROITE
RADICAL	LIBÉRAL	CONSERVATEUR		RÉACTIONNAIRE
POINT I ●	POINT II ●	POINT III ●		POINT IV ●
ÉGALITÉ DE CONDITION	ÉGALITÉ DE CHANCES	ÉGALITÉ DE DROITS	ARISTOCRATIE	HIÉRARCHIE

11. Quelle idéologie serait **le mieux** représentée au Point I sur cet éventail politique?

A. Le fascisme
B. Le communisme
C. La social-démocratie
D. Le libéralisme classique

12. L'argument suivant:

Le chef est le dépositaire de la volonté collective du peuple. Il est ainsi possible pour lui, au nom de la vraie volonté du peuple qu'il sert, d'aller à l'encontre des opinions et convictions d'individus isolés si celles-ci ne s'accordent pas avec la destinée du peuple. Par sa conduite des affaires, il donne à la nation son vrai sens.

s'associerait **de plus** près à un interlocuteur situé à quel point de l'éventail politique?

A. POINT I
B. POINT II
C. POINT III
D. POINT IV

13. La question suivante fait l'objet d'un débat dans un cours d'études sociales:

Les gouvernements devraient-ils insister sur l'initiative individuelle dans l'économie de leur nation?

Si le Point II de l'éventail politique représentait vos convictions, lequel des énoncés suivants exprimerait **le mieux** votre point de vue sur cette question?

A. Une économie d'entreprise publique mettra fin à l'exploitation en abolissant toute propriété privée.

B. Une économie de marché convient le mieux pour mettre en valeur la prise de risques et les profits.

C. Les économies mixtes encouragent beaucoup trop d'abus de la part de l'État-providence et des systèmes de soutien.

D. Les économies mixtes assurent la meilleure combinaison d'indépendance et d'égalité économique.

---

14. Dans la montée d'Hitler au pouvoir, son recours au spectacle comme forme efficace d'endoctrinement était **le plus** manifeste dans

A. les grands rassemblements
B. les jugements d'épuration
C. les élections truquées
D. les camps de concentration

15. Dans une démocratie représentative, le consentement pour accorder l'autorité politique revient en définitive

A. à l'électorat
B. à la monarchie constitutionnelle
C. au secteur judiciaire du gouvernement
D. au secteur exécutif du gouvernement

16. L'objection la plus forte d'un communiste aux économies de laissez-faire du XIXe siècle serait qu'elles

A. causaient des pressions inflationnistes massives
B. encourageaient l'exploitation d'une classe par une autre
C. créaient un environnement où la révolution était possible
D. causaient la formation de coopératives et de cartels

Utilisez les manchettes de journaux suivantes pour répondre aux questions 17 et 18.

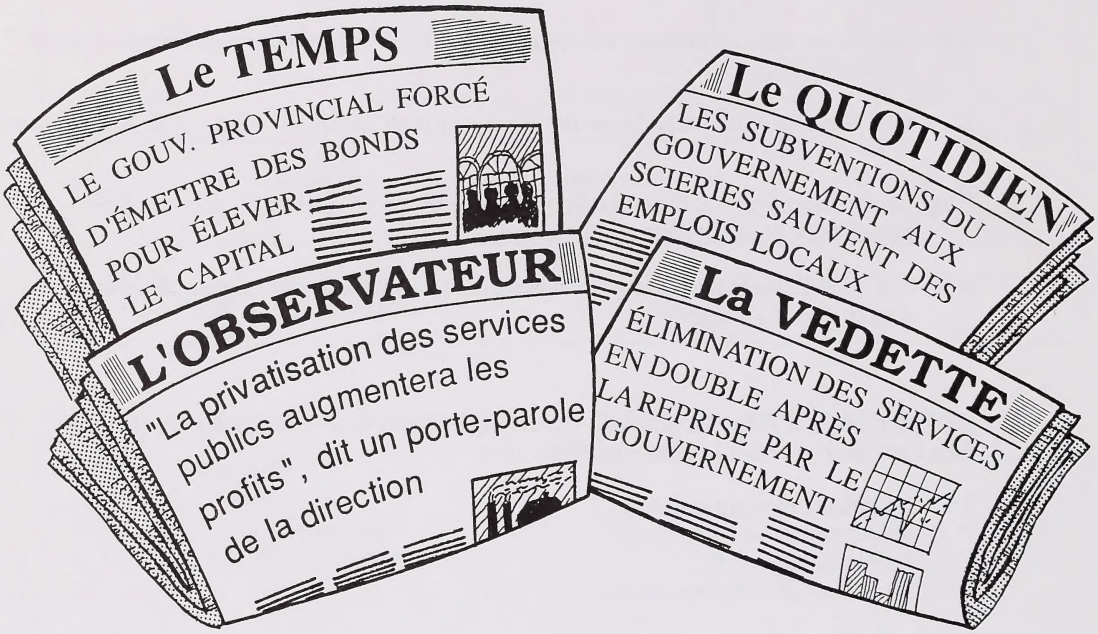

17. Si vous souteniez la mesure décrite par la manchette de *L'Observateur*, vous considéreriez **fort** probablement qu'il convient que le gouvernement

A. emploie l'argent des impôts pour soutenir les compagnies improductives
B. fournisse des subventions aux entreprises pour stimuler l'expansion
C. joue un moindre rôle dans la réglementation du marché
D. nationalise les industries dont les revenus sont excessifs

18. Quel titre d'éditorial indique une position qui est **contre** la mesure mentionnée en première page?

A. Éditorial du *Temps*: *Le gouvernement doit réduire le déficit*
B. Éditorial du *Quotidien: Les travailleurs ont besoin de sécurité et d'avantages sociaux*
C. Éditorial de *La Vedette*: *Nationalisation – clé de l'efficacité*
D. Éditorial de *L'Observateur*: *La liberté de l'industrie signifie plus d'investissements*

Utilisez la citation suivante pour répondre aux questions 19 à 21.

> Le loi électorale soviétique ne limite pas le nombre de candidats se présentant aux élections dans une circonscription. Cependant, sur tous les candidats proposés par les diverses organisations et les divers groupes de travailleurs comme candidats agréés possibles, en règle générale, un seul se présente aux élections dans une circonscription donnée.
>
> La raison est qu'en U.R.S.S. il n'y a pas de forces rivales ni de partis rivaux ayant des intérêts opposés qui proposeraient des programmes différents et lutteraient pour dominer les organes représentatifs. Il y a seulement un parti en Union soviétique – le parti communiste. Les gens – ouvriers, paysans et intellectuels – ont chargé ce parti de représenter leurs intérêts et aspirations. C'est la raison pour laquelle les candidats au poste de deputé en U.R.S.S. sont les candidats du peuple et sont nominés au nom du bloc unique des Communistes et des gens sans parti. Dans ces conditions, cela n'aurait pas de sens de partager artificiellement les voix entre plusieurs candidats ayant la même plate-forme et il est devenu traditionnel de ne présenter qu'un candidat.
>
> – Novosti Press Agency, 1967

19. D'après la citation, les élections de 1967 en Union soviétique ne comportaient qu'un seul candidat comme député

A. parce qu'il était illégal constitutionnellement de présenter plus d'un candidat

B. parce que le parti communiste et les autres partis politiques choisissaient collectivement un candidat

C. parce que les différents partis socialistes négociaient et convenaient de présenter un candidat commun

D. parce que tous les candidats représentaient la même plate-forme; des candidats d'opposition étaient donc superflus

20. Le présupposé sous-jacent à la pratique décrite dans la citation est que

A. tous les gens dans la société soviétique ont les mêmes intérêts fondamentaux

B. chaque candidat éventuel est aussi capable qu'un autre mais a la responsabilité de représenter des points de vue différents

C. le vrai pouvoir appartient au peuple si bien que les représentants élus ont peu d'importance en réalité

D. dans une société où tout le monde est égal, il est important que tout le monde vote

21. Pour beaucoup des réformateurs actuels en Union soviétique, quel était le défaut **le plus** grave du système décrit dans la citation?

A. Le faible taux de participation électorale
B. La stagnation politique
C. L'inconsistance des chefs
D. Le contrôle de la société par les travailleurs

Utilisez les événements suivants pour répondre à la question 22.

1. L'adoption de la loi pour la protection du peuple et de l'État (mars 1933)
2. L'adoption des pleins pouvoirs (mars 1933)
3. L'adoption de la loi contre la formation de nouveaux partis (juillet 1933)
4. La nuit des longs couteaux (juin 1934)

22. L'effet commun de ces quatre événements a été de consolider le pouvoir qu'avait Hitler de faire face à toute menace

A. de révolte militaire
B. de résistance passive
C. d'intervention étrangère
D. d'opposition politique

Utilisez la citation suivante pour répondre aux questions 23 et 24.

> Nous devons veiller à ce que le gouvernement lui-même – par sa fiscalité, ses dépenses et ses programmes de réglementation – n'entrave pas le processus de transformation et d'adaptation nécessaire pour améliorer la productivité et accroître notre compétitivité internationale. Nous devons encourager l'entreprise dans ce pays. Nous devons réduire le fardeau de la réglementation, sans prendre cela comme une fin en soi, mais pour libérer les énergies créatrices chez les particuliers et dans les sociétés en vue d'expérimenter, d'innover et de produire des biens et services meilleurs à des prix plus bas.
>
> – Hon. Michael H. Wilson

23. M. Wilson base son argumentation sur le présupposé que

A. l'injustice de l'inégalité de revenu vient de la réglementation gouvernementale
B. ce qui est bon pour le monde des affaires est bon pour le bien public
C. ce qui est mauvais pour le gouvernement du Canada est mauvais pour les citoyens en général
D. le système de libre entreprise souffre plus que tout autre système de la réglementation

24. Étant donné la position de M. Wilson, de quelle mesure gouvernementale serait-il partisan?

A. Subventionner des organismes de protection du consommateur
B. Nationaliser les services publics essentiels
C. Établir un ministère de la privatisation
D. Prévoir un déficit budgétaire en augmentant les dépenses

Utilisez le dessin suivant pour répondre à la question 25.

"C'EST ÉTRANGE COMME VOUS ME RAPPELEZ QUELQU'UN, JOSEF. . ."

– dans *European History 1815-1948*

25. L'intention de ce dessin historique est de laisser entendre que

A. les dictateurs partagent des idéologies communes
B. le communisme et le fascisme sont semblables en théorie
C. les techniques de dictature sont semblables quelle que soit l'idéologie
D. les dictatures stables dépendent souvent de leur pureté idéologique

---

26. Les partisans d'un régime de social-démocratie approuvent le principe de taxation progressive **principalement** parce que

A. les particuliers sont libres de se faire concurrence sur le plan économique dans la société
B. les particuliers sont assurés d'une plus grande égalité économique
C. l'exploitation économique est éliminée
D. la stabilité économique est garantie

Utilisez la citation suivante pour répondre à la question 27.

> Il ne faut pas qu'il y ait des décisions prises par la majorité, mais seulement des personnes responsables. Il est sûr que chaque homme aura des conseillers à ses côtés, mais la décision sera prise par un homme. Lui seul aura peut-être le pouvoir et le droit de commander. Il ne sera pas possible de se passer du Parlement. Mais leurs conseillers les [les chefs] conseilleront vraiment. Dans aucune chambre n'a lieu un vote. Ce principe de responsabilité absolue, combiné inconditionnellement avec le pouvoir absolu, engendrera progressivement une élite de chefs.
>
> – dans *Approaches to Political and Economic Systems*

27. Les idées exprimées dans la citation concorderaient **le plus** avec celles que l'on trouve dans

A . *La Liberté* de John Stuart Mill
B . *Le Capital* de Karl Marx
C . *Mein Kampf* d'Adolf Hitler
D . *Le Contrat social* de Jean-Jacques Rousseau

---

28. Quand un gouvernement dans une économie mixte baisse les taux d'intérêt, augmente les dépenses et diminue les impôts, il est probablement en train d'essayer de prendre des mesures concernant

A . la montée de l'inflation
B . la montée du chômage
C . les dépenses massives à la consommation
D . l'excès d'investissements étrangers

29. La démarche économique associée à la plupart des États fascistes serait caractérisée par

A . un mélange d'entreprise publique et privée contrôlée
B . une dette nationale exagérée avec des impôts élevés sur les entreprises
C . un style collectiviste de répartition des biens et services
D . un marché libre sans réglementation pour les biens d'équipement et de consommation

30. Actuellement, les gouvernements de nombreuses économies de marché essaient d'encourager l'esprit d'entreprise grâce à

A . l'impression de plus de papier-monnaie
B . la nationalisation des industries en faillite
C . des réductions et à des reports d'impôts
D . l'établissement d'organismes de protection du consommateur

31. Les tentatives de coups d'État et d'assassinats politiques, la menace d'intervention étrangère et d'hyperinflation, et l'avènement de partis politiques extrémistes ont **le plus** menacé la stabilité

A. de la République de Weimar en Allemagne (1918-1933)
B. du gouvernement bolchevique de la Russie soviétique (1917-1921)
C. du gouvernement fasciste de l'Italie (1922-1943)
D. de la IIIe République en France (1930-1940)

Utilisez l'affirmation suivante pour répondre aux questions 32 et 33.

AFFIRMATION:	Karl Marx croyait que les prix et le motif du profit conduisent les gens entreprenants à travailler au bien public bien qu'ils ne cherchent que leur propre gain.

32. Cette affirmation confond les croyances de Karl Marx avec celles de

A. John Maynard Keynes
B. Friedrich Engels
C. Benito Mussolini
D. Adam Smith

33. Un énoncé juste serait que Karl Marx croyait que l'esprit d'entreprise ne réussit pas à

A. récompenser le dynamisme et l'initiative
B. permettre le zèle et l'innovation
C. encourager l'exploitation et l'avidité
D. faire naître la coopération entre les classes sociales

---

34. Si, dans une économie de marché, c'est la main invisible qui finalement fait travailler un producteur dans l'intérêt du consommateur, qu'est-ce qui, dans une démocratie, fait finalement qu'un politicien travaille dans l'intérêt des électeurs?

A. L'activité des groupes de pression
B. Une tradition d'élections périodiques
C. La protection des groupes minoritaires
D. Un système de représentation proportionnelle

35. Certains monopoles ont tendance à exister dans des économies de marché

A. parce que la récession et l'inflation périodiques augmentent la concurrence
B. parce qu'il n'y a pas assez de ressources pour alimenter les compagnies rivales
C. parce que la réglementation gouvernementale dérange le fonctionnement de l'offre et de la demande
D. parce qu'il y a des services qui peuvent être fournis plus efficacement par un seul fournisseur

36. *Politique et idéologie forment une drôle de paire.*

La vérité de cette généralisation a été démontrée pendant l'entre-deux-guerres par

A. le pacte de neutralité germano-soviétique
B. le pacte Briand-Kellogg
C. l'Axe Rome-Berlin
D. les traités de Locarno

Utilisez les sources suivantes pour répondre aux questions 37 à 40.

SOURCE I

POINTS RETENUS DANS LA PROPOSITION DE PAIX DU PRÉSIDENT WILSON

1. Ajustement impartial de toutes les prétentions coloniales.
2. Évacuation par l'Allemagne de tout territoire russe.
3. Réajustement des frontières le long des lignes de nationalité et de développement autonome.
4. Établissement d'une Pologne indépendante ayant accès à la mer librement et sans danger.

SOURCE II

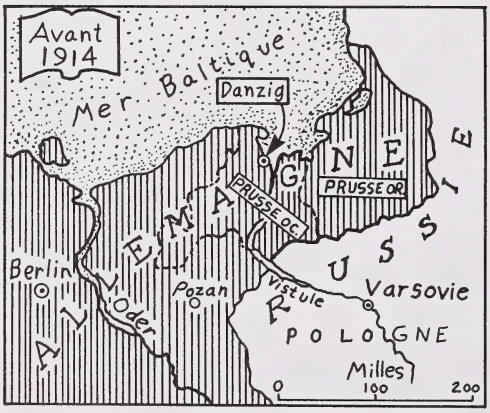

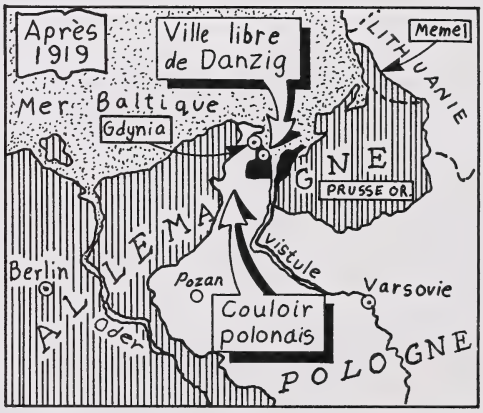

– dans *World Affairs*

37. Les deux sources illustrent un souci commun né de la question

A . de poursuivre l'apaisement
B . de reconnaître la territorialité
C . d'introduire la sécurité collective
D . d'établir des sphères d'influence

38. Une comparaison des points de la source I avec les cartes de la source II révèle que le règlement d'après-guerre dans cette région

A . empêchait le militarisme de redevenir une force nationaliste
B . partageait la Pologne entre l'Allemagne et l'U.R.S.S.
C . violait un principe tout en en observant un autre
D . isolait la Pologne du reste de l'Allemagne

39. Les cartes de la source II indiquent

A . qu'on n'a pas tenu compte des prétentions territoriales d'un allié
B . qu'on a reconnu les intérêts économiques d'un pays sans accès à la mer
C . qu'on a reconnu aux anciennes colonies leurs objectifs d'indépendance
D . qu'on a devancé les frustrations nationalistes d'un pays vaincu

40. La controverse sur la réalisation des propositions de Wilson ainsi que les transformations géographiques indiquées dans la source II ont contribué considérablement

A . au renforcement du nationalisme allemand
B . à la naissance de prétentions soviétiques en Europe de l'Est
C . à une diminution des conflits territoriaux dans l'Europe d'après-guerre
D . à une augmentation de la rivalité impérialiste entre les grandes puissances

---

41. Le principe de politique étrangère qui consiste à préserver la souveraineté nationale contre toute interférence externe a été **le mieux** défendu quand

A . le gouvernement républicain pendant la guerre civile d'Espagne a appelé à l'aide les brigades internationales

B . le gouvernement des Pays-Bas a soutenu les objectifs de la Communauté économique européenne

C . le gouvernement canadien a négocié un accord de libre échange avec son voisin américain

D . le sénat américain a voté contre l'adhésion à la Société des Nations

Utilisez le dessin suivant pour répondre à la question 42.

UN CLIENT DIFFICILE IVRE DE POUVOIR

KNOTT, *THE DALLAS NEWS*

42. Ce dessin de 1938 ridiculise la politique

A. allemande d'alliances
B. tchèque d'indépendance
C. italienne d'endiguement
D. britannique d'apaisement

43. L'incapacité de la Société des Nations d'imposer des sanctions qui réussissent contre l'Italie en 1935 illustre l'échec

A. de la politique de la corde raide
B. des alliances militaires
C. des conférences au sommet
D. de la sécurité collective

Utilisez le diagramme suivant pour répondre à la question 44.

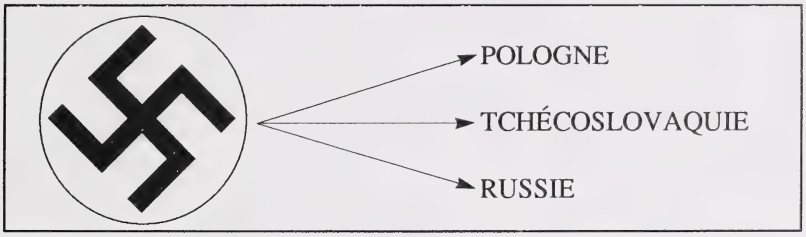

44. Quelle politique étrangère de l'Allemagne nazie le diagramme illustre-t-il **le mieux**?

A. Endiguement
B. Apaisement
C. Espace vital
D. *Anschluss*

---

45. L'objectif principal de l'attaque japonaise sur Pearl Harbour était de

A. faire comprendre aux Américains la menace imminente d'une invasion japonaise
B. créer une zone tampon entre le Japon et les États-Unis
C. bloquer l'opposition américaine à l'expansion japonaise en Asie du Sud-Est
D. forcer les Américains à reconnaître les intérêts japonais en Mandchourie

46. Pendant les années 1930, la guerre civile d'Espagne était considérée par beaucoup comme le début d'une lutte armée entre

A. la démocratie et le fascisme
B. le fascisme et le capitalisme
C. le communisme et l'anarchisme
D. le socialisme et la démocratie

Utilisez le diagramme suivant pour répondre aux questions 47 à 49.

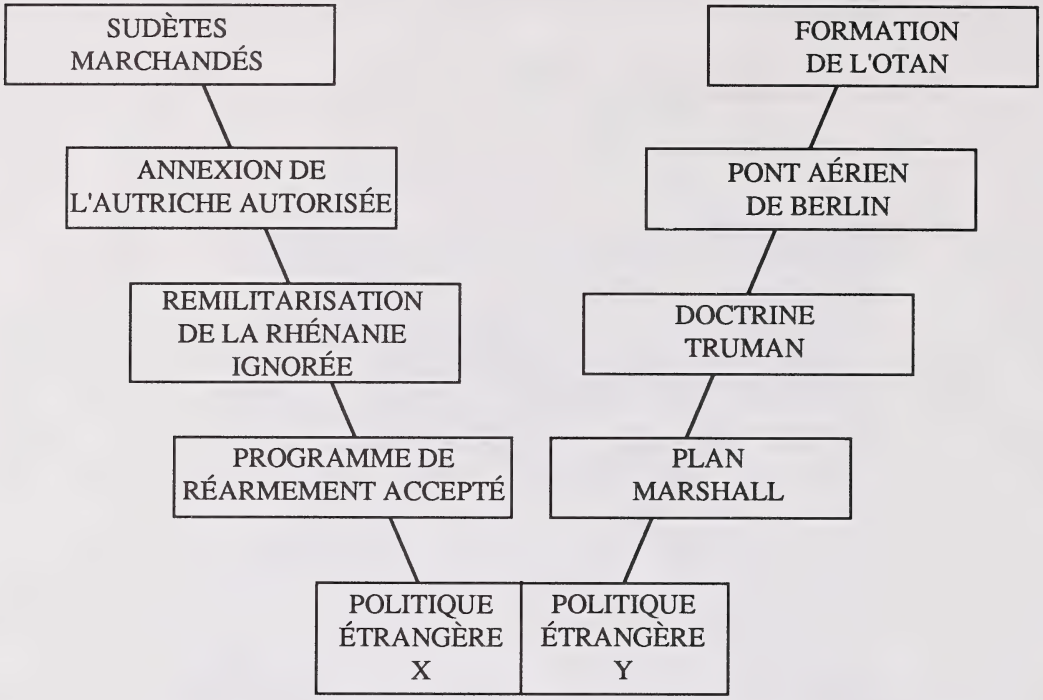

47. Les deux branches de la formation d'une politique étrangère indiquent un contraste entre

A. l'isolationnisme et la détente
B. l'agression et la coexistence
C. l'apaisement et l'endiguement
D. le nationalisme et l'internationalisme

48. Durant quelle période chaque politique étrangère s'est-elle développée?

	POLITIQUE ÉTRANGÈRE X		POLITIQUE ÉTRANGÈRE Y
A.	1930 à 1935	_____	1955 à 1960
B.	1920 à 1935	_____	1940 à 1945
C.	1934 à 1939	_____	1945 à 1950
D.	1940 à 1945	_____	1950 à 1955

49. Les historiens critiqueraient généralement les deux politiques étrangères du fait qu'elles

A. étaient conçues pour promouvoir une course aux armements
B. n'ont pas réussi à réduire les tensions et les crises mondiales
C. étaient basées sur des ambitions impérialistes mutuelles
D. ne reconnaissaient pas la souveraineté des nations en jeu

Utilisez la citation suivante pour répondre aux questions 50 à 52.

> La seule démarche efficace pour obtenir la paix est de faire un accord entre toutes les grandes puissances, dans lequel chacune devrait s'engager non seulement à se soumettre aux décisions d'un tribunal commun mais aussi à en appuyer les décisions par la force. Les grandes nations civilisées devraient s'unir par un accord solennel en une grande société mondiale pour la paix qu'apporte la justice.
>
> – Theodore Roosevelt, Président américain

50. Quel présupposé est sous-jacent aux affirmations de Theodore Roosevelt?

A . Rétablir la paix peut parfois vouloir dire sacrifier la souveraineté.

B . La civilisation ne peut être sauvée qu'en maintenant des identités nationales fortes.

C . Rétablir la paix demande que les pays acquièrent un fort sens de patriotisme.

D . Les alliances entre pays partageant des idéologies semblables sont le meilleur moyen de maintenir l'unité nationale.

51. Pour obtenir la paix, Theodore Roosevelt préconisait

A . l'équilibre des forces par des alliances
B . la force de dissuasion exercée avec des armes supérieures
C . la sécurité collective grâce à une vision commune
D . l'endiguement grâce à des négociations diplomatiques

52. L'organisation dont les buts sont parallèles aux principes de la politique que préconise Theodore Roosevelt est

A . les Nations unies
B . le Commonwealth
C . l'Organisation du traité de l'Atlantique Nord
D . l'Organisation des pays exportateurs de pétrole

---

53. Immédiatement après la Seconde Guerre mondiale, la politique étrangère américaine était centrée sur

A . la volonté d'isoler l'Allemagne en Europe de l'Est
B . la poursuite de la sécurité par l'endiguement
C . l'établissement d'une Société des Nations rajeunie
D . la poursuite d'une coexistence pacifique avec l'Union soviétique

Utilisez les sources historiques suivantes pour répondre aux questions 54 à 57.

SOURCE I

D'après moi, la politique étrangère du gouvernement soviétique est tout à fait claire. Elle cherche d'abord à sauvegarder l'Union soviétique. On assiste à la construction d'un grand régime militaire et industriel destiné à atteindre ce but. Le gouvernement soviétique n'est pas une puissance avide comme l'Allemagne ou le Japon. Ce n'est qu'après l'arrivée d'Hitler au pouvoir que le grand développement industriel projeté par Staline a été accéléré à des fins guerrières. Une fois la sécurité établie, la politique soviétique est de mettre en valeur l'U.R.S.S. intérieurement. Cela se fait le mieux dans un monde en paix. La politique étrangère soviétique a donc toujours été d'empêcher la guerre.

– Joseph E. Davies, *Life* Magazine, 1943

SOURCE II

Comme dans le cas pratiquement de tous les États-nations, la crainte est la dynamique principale de la politique soviétique. Bien que les mesures prises aient semblé agressives aux yeux de l'Occident, pour les Russes elles étaient défensives. Le principal effet des doctrines communistes a été d'exagérer la peur naturelle de l'Ouest, motivant ainsi l'expansion extraordinaire en Europe de l'Est, qui est destinée surtout à renforcer la sécurité.

Puisque la crainte qu'ont les communistes d'une agression de la part des nations "capitalistes" est si profondément enracinée, il est probablement vrai de dire que le but ultime de l'Union soviétique est de dominer le monde; car les Russes ne se sentiraient pas en sécurité tant qu'une démocratie de quelque importance militaire échapperait à leur contrôle.

Il est donc plus pertinent de distinguer entre les buts à long et à court terme de la Russie, quand il devient clair que l'objectif le plus immédiat de la politique de la Russie a été d'assurer ses propres frontières.

– extrait tiré de *The Background to Current Affairs*, 1970

54. Les deux sources traitent de quelle question historique essentielle?

A . Le monde devrait-il être prêt à censurer l'Union soviétique pour son interférence en Europe de l'Est?

B . Les différences idéologiques devraient-elles empêcher la coopération entre l'Europe de l'Ouest et l'Union soviétique?

C . Le développement économique devrait-il passer avant le développement politique en Union soviétique?

D . L'Union soviétique devrait-elle être considérée comme ayant des intentions pacifiques ou agressives?

55. Les deux sources sont d'accord pour dire que la politique étrangère soviétique est basée surtout sur un désir de

A . paix mondiale
B . domination mondiale
C . sécurité collective
D . sécurité nationale

56. Quel énoncé est **faux** d'après la source II?

A . Le but à court à terme de l'Union soviétique est de dominer le monde.
B . Les États tampons sont créés pour protéger le territoire soviétique contre une attaque.
C . Les politiques soviétiques sont en partie déterminées par la crainte et le soupçon qu'inspire l'Ouest.
D . L'activité défensive soviétique peut sembler agressive aux yeux de l'Ouest.

57. Quelle mesure l'auteur de la source I voit-il comme **la plus** souhaitable dans les rapports avec l'U.R.S.S.?

A . Accumuler des armements pour s'opposer à la force soviétique.
B . Encourager la croissance de la démocratie à l'intérieur de l'Union soviétique.
C . Garantir les frontières de l'Union soviétique par des accords internationaux.
D . Établir des alliances régionales pour protéger les autres nations européennes.

---

58. Les analystes américains de politique étrangère interprètent généralement les initiatives américaines prises pendant la guerre du Viêt-nam, la guerre de Corée et la crise des missiles à Cuba comme des tentatives pour assurer

A . la coexistence pacifique avec les nations importantes du Tiers-Monde
B . l'endiguement des tendances expansionnistes perçues à l'étranger
C . l'apaisement des dictateurs réclamant à cor et à cri que le monde les reconnaisse
D . la sécurité collective grâce à l'emploi de mesures policières internationales

59. Historiquement, une raison clé pour laquelle le Conseil de sécurité de l'O.N.U. a eu du mal à exercer ses fonctions est que

A. les forces de maintien de la paix n'ont pas les fonds nécessaires pour maintenir un état de préparation militaire efficace

B. les nations en voie de développement ne sont pas suffisamment représentées au Conseil de sécurité

C. les membres permanents du Conseil de sécurité détiennent le pouvoir d'opposer leur veto aux décisions de principe

D. les nations du Tiers-Monde s'opposent aux principes de coopération et de sécurité collective

60. *L'intérêt accru de la communauté internationale pour les droits de la personne, qu'illustrent les accords d'Helsinki et les sanctions imposées à l'Afrique du Sud, pourrait être considéré comme incompatible avec un des principes de base de la Charte des Nations unies.*

Choisissez le principe de la Charte qui soulève cette possibilité de conflit.

A. L'Organisation des Nations unies doit honorer les objectifs de diplomatie ouverte et d'autodétermination.

B. Tous ses membres doivent s'abstenir de recourir à la menace ou à l'emploi de la force dans leurs relations internationales.

C. Tous ses membres doivent remplir de bonne foi les obligations qu'ils ont assumées aux termes de la Charte.

D. L'Organisation des Nations unies n'interviendra pas dans des affaires qui relèvent essentiellement de la compétence nationale d'un État.

61. Si vous vous **opposiez** à un régime d'équilibre des forces comme moyen de maintenir la paix mondiale, vous seriez partisan de

A. la formation d'alliances défensives régionales fortes
B. l'établissement d'une cour de justice internationale pour arbitrer les différends
C. la division du monde en sphères d'influence stables
D. l'intensification de la course aux armements pour assurer la force de dissuasion entre les superpuissances

62. L'intervention soviétique en Hongrie en 1956 comportait d'abord un conflit entre les exigences soviétiques de sauvegarde de la sécurité nationale et la détermination de la Hongrie d'obtenir

A. la réciprocité
B. l'autodétermination
C. l'expansion nationale
D. la neutralité internationale

63. Une stratégie de force de dissuasion fonctionnerait **le plus** efficacement entre deux États hostiles quand

A. ils consentent à coexister
B. ils pratiquent l'isolationnisme
C. il y a un équilibre des forces
D. il y a une politique d'apaisement

Utilisez le tableau suivant pour répondre à la question 64.

COMPARAISON DES PUISSANCES MONDIALES (1983)

Pays	P.N.B. millions $U.S.	Dépenses militaires millions $U.S.	Forces armées 1 000	Dépenses militaires % du P.N.B.
U.S.A.	2 132 900	109 247	2 069	5,12
U.R.S.S.	967 820	103 000	3 638	10,60
Chine	424 620	26 000	4 325	6,10
Grande-Bretagne	311 821	14 622	313	4,60
France	474 503	18 657	503	3,90
Allemagne de l'Ouest	642 462	21 466	490	3,30
Pologne	127 560	3 465	307	2,70
Japon	1 128 231	9 211	240	0,80
Argentine	53 400	1 463	133	2,70
Canada	200 478	4 089	80	2,00
Israël	14 089	3 100	164	22,00
Suisse	88 385	1 774	19	2,00
Suède	86 744	3 025	66	2,40
Tchad	600	37	5	6,10
Arabie Saoudite	66 636	8 818	59	13,20
Cuba	12 325	471	159	3,80

– R. Sivard, *World Military and Social Expenditures*

64. D'après ce tableau de 1983, les dépenses militaires en pourcentage du P.N.B. étaient les plus élevées dans les pays

A. de l'O.T.A.N.
B. de l'Extrême-Orient
C. du Moyen-Orient
D. du Pacte de Varsovie

Utilisez les termes suivants pour répondre aux questions 65 et 66.

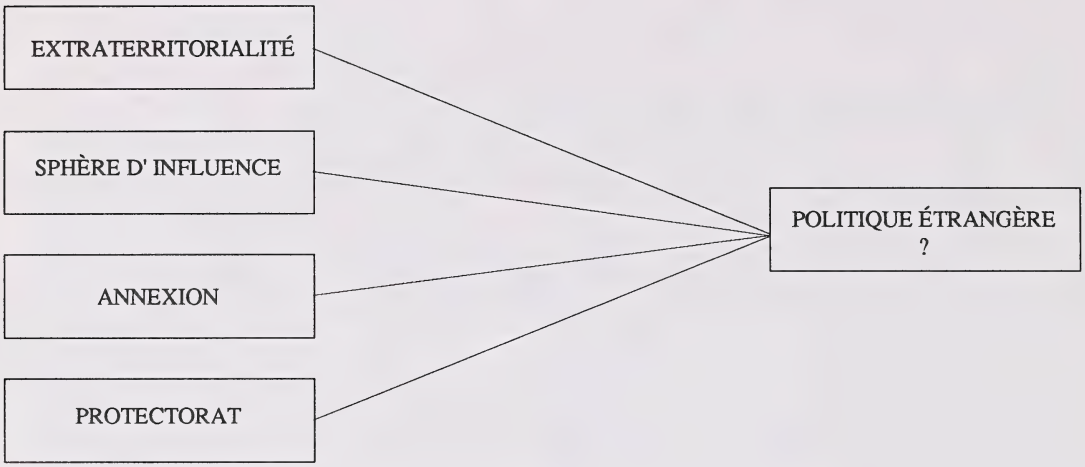

65. Pris ensemble, les quatre termes représentent les conséquences possibles d'une politique étrangère basée sur

A . un commerce plus libre
B . la force de dissuasion mutuelle
C . des armements limités
D . l'expansion impérialiste

66. Un dirigeant national qui soutiendrait la mise en pratique de ces quatre idées partirait du principe que

A . la détente entre les États garantit le sécurité
B . les compromis diplomatiques encouragent la coopération
C . la politique de la force armée domine la scène internationale
D . les actes d'agression doivent être réglés en recourant au désarmement

67. La formation de la Communauté économique européenne et du Parlement européen est un exemple de nations membres qui accordent **moins** d'importance à

A . la souveraineté nationale
B . la sécurité nationale
C . la sécurité collective
D . la coopération internationale

68. Les nationalistes en économie préconisent traditionnellement

A . de former des blocs de commerce régionaux
B . d'encourager le libre échange international
C . d'élever des barrières douanières et des tarifs douaniers protecteurs
D . d'encourager les placements étrangers dans l'industrie nationale

69. L'importance des conférences au sommet entre les présidents Reagan et Gorbatchev dans les années 80 est qu'elles ont à nouveau attesté qu'un facteur critique dans les relations internationales est

A . le maintien de la diplomatie secrète entre les superpuissances
B . l'acceptation de la coexistence pacifique entre les superpuissances
C . le mentalité de guerre froide qui est d'établir de nouvelles sphères d'influence
D . le fait que l'O.N.U. n'ait pas réussi à influencer les décisions des dirigeants mondiaux

70. Considérez la question posée ci-après et **évaluez** les arguments qui suivent en choisissant l'argument LE PLUS FORT qui porte sur la question.

LES GOUVERNEMENTS DEVRAIENT-ILS RÉSOUDRE LEURS DIFFÉRENDS PAR L'INTERMÉDIAIRE DES NATIONS UNIES?

A . Non, parce que les Nations unies n'ont pas connu le succès dans leur prévention des guerres ou conflits locaux.

B . Oui, parce que les Nations unies ont contribué à forcer les superpuissances à reconnaître la nécessité du désarmement.

C . Non, parce que l'emploi que certains membres permanents ont fait du veto du Conseil de sécurité a bloqué une action internationale cruciale.

D . Oui, parce que la perte de la souveraineté est sans importance dans le monde d'aujourd'hui.

PARTIE B: RÉDACTION

La section rédaction est un exercice de composition qui vaut 30% de la note totale d'examen. Vous devez choisir et défendre une position sur **une** des deux questions présentées. Les dissertations sur chaque sujet seront notées selon les mêmes critères.

INSTRUCTIONS

Choisissez le sujet A **ou** le sujet B pour votre dissertation. Si vous traitez les deux sujets, **seul** le premier sera noté.

N'OUBLIEZ PAS D'INDIQUER LE SUJET QUE VOUS AVEZ CHOISI À L'ENDROIT PRÉVU AU DOS DU LIVRET.

LISEZ ATTENTIVEMENT TOUTES LES PARTIES DE L'EXERCICE.

UTILISEZ UN STYLO BLEU OU NOIR POUR LE PROPRE.

RÉDACTION – SUJET DE DISSERTATION

Choisissez **un** des sujets suivants pour votre dissertation. N'oubliez pas d'indiquer le sujet que vous avez choisi au dos du livret.

SUJET A

Beaucoup de gens croient que les gouvernements doivent donner aux industries des stimulants financiers tels que des réductions et des reports d'impôts, des prêts à des conditions favorables et même des subventions. Ils prétendent que de telles mesures favoriseront l'expansion économique et créeront des emplois. D'autres soutiennent que ce n'est pas au gouvernement de fournir des stimulants financiers au secteur industriel. Ils estiment que ces revenus peuvent mieux servir au bien commun ailleurs.

Les gouvernements devraient-ils donner des stimulants financiers aux industries pour stimuler la croissance économique?

Dans une dissertation, choisissez une position sur cette question et défendez-la.

ou

SUJET B

Au cours du XXe siècle, il y a des nations qui se sont jointes à d'autres pour utiliser la force contre des États agresseurs. Ces nations croient qu'une telle action préserve la sécurité nationale, et restaure la stabilité internationale et l'ordre. D'autres nations étaient peu disposées à s'opposer militairement à l'agression, préférant d'autres voies telles que la diplomatie ou les sanctions économiques. Elles croient que la négociation plutôt que la force rétablit mieux la paix et la stabilité.

Les nations du monde devraient-elles s'unir pour recourir à une action militaire contre un agresseur?

Dans une dissertation, choisissez une position sur cette question et défendez-la.

RAPPELS

- **Faites** un plan.
- **Concentrez-vous** sur la question posée.
- **Établissez** une position ou une thèse claire qui donnera une ligne directrice et de l'unité à votre dissertation.
- **Structurez** votre dissertation de façon à défendre votre position le mieux possible.
- **Défendez** votre position avec des preuves à l'appui, tirées de vos connaissances en études sociales.
- **Relisez** et **corrigez** votre travail.

Faites votre dissertation à l'endroit prévu. Il y a des pages prévues pour le plan et le brouillon, et pour le propre.

BROUILLON

N'oubliez pas d'indiquer au dos du livret le sujet que vous avez choisi.

PROPRE

CRÉDITS

Sources 6-9	Dans *Vital Speeches of the Day*, September 1953, Vol. 20, p. 153. Reproduit avec la permission de City News Publishing Co.
	Dans *Canada and the World*, November 1983, p. 23. Reproduit avec la permission de Canada and the World, Maclean Hunter Ltd.
	Dessin de Hector Breene dans *Punch* (Yonkers, New York: Punch Magazine) © Punch/Rothco. Tous droits réservés.
Sources 19-21	Dans *USSR: Questions and Answers* (Novosti Press Agency, 1967). Reproduit avec la permission de Progress Books.
Sources 23-24	Hon. Michael H. Wilson. Dans *Une nouvelle direction pour le Canada: Un programme de renouveau économique*, novembre 1984 (Ministère des Finances Canada). Reproduit avec la permission du ministère d'Approvisionnements et Services Canada, 1990.
Source 25	David Low. Dessin tiré de *European History 1815-1948* (Oxford University Press). Reproduit avec la permission de Solo Syndication & Literary Agency Ltd.
Source 27	Dans *Approaches to Political and Economic Systems* de Couture, Lehman et Nosyk. Copyright © 1983 de Globe/Modern Curriculum Press. Reproduit avec permission.
Sources 37-40	Cartes tirées de *World Affairs*, June 1939, Vol. 4, No. 10. Reproduit avec la permission du Christian Science Monitor.
Source 42	Dessin tiré de *The Dallas News*. Reproduit avec la permission de The Dallas News.
Sources 50-52	Theodore Roosevelt. Dans *Internationalism, Opposing Viewpoints* (San Diego, Californie: Greenhaven Press, Inc.). Reproduit avec la permission de Greenhaven Press, San Diego, CA.
Sources 54-57	Joseph E. Davies, *Life* Magazine © 1943 Time Inc.
	Extrait tiré de *The Background to Current Affairs*, édité par D.W. Crowley (London: Macmillan Publishing Ltd.). Reproduit avec la permission de Macmillan Accounts and Administration Ltd.
Source 64	Reproduit avec la permission de Ruth Leger Sivard's *World Military and Social Expenditures 1983* © World Priorities, Washington, D.C., U.S.A.

NE PAS ÉCRIRE
SUR CETTE PAGE

INDICATE YOUR CHOICE OF TOPIC

CHECK ONE

TOPIC A ☐

TOPIC B ☐

FOR DEPARTMENT USE ONLY

M1 ☐ M2 ☐ M3 ☐

APPLY LABEL WITHOUT STUDENT'S NAME

ÉTUDES SOCIALES 30

NAME: (LAST NAME) ☐☐☐☐☐☐☐☐☐☐☐☐☐☐☐☐ (FIRST NAME) ☐☐☐☐☐☐☐☐☐☐☐☐ DATE OF BIRTH: Y ☐☐ M ☐☐ D ☐☐ SEX: ☐

PERMANENT MAILING ADDRESS: _____

(Apt./Street/Ave./P.O. Box) (Village/Town/City) (Postal Code)

SCHOOL CODE: ☐☐☐☐ SCHOOL: _____ SIGNATURE: _____

APPLY LABEL WITH STUDENT'S NAME

ÉTUDES SOCIALES 30